На тонкую собирающую линзу с главным фокусом F падает расходящийся пучок света, ограниченный лучами 1 и 2. Прошедший через линзу пучок света правильно изображен на рисунке, обозначенном цифрой:

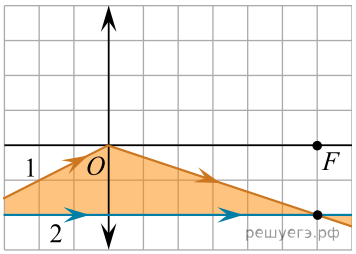

Рис. 1

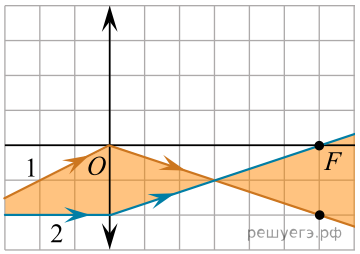

Рис. 2

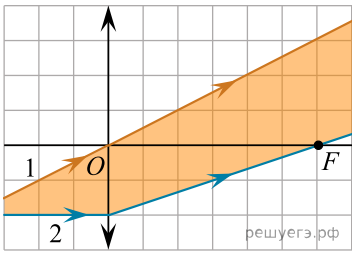

Рис. 3

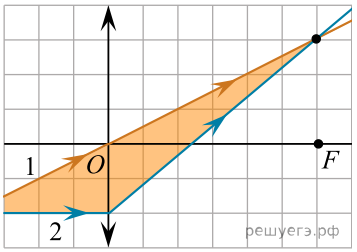

Рис. 4

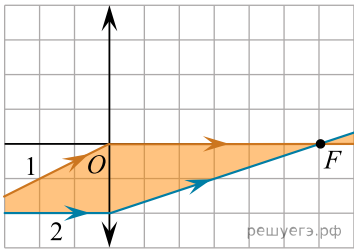

Рис. 5

1) 1 2) 2 3) 3 4) 4 5) 5